Arkusz zawiera informacje prawnie chronione do momentu rozpoczęcia egzaminu

Układ graficzny © CKE 2019

CENTRALNA KOMISJA EGZAMINACYJNA

Nazwa kwalifikacji: **Wykonywanie usług krawieckich**
Oznaczenie kwalifikacji: **A.12**
Wersja arkusza: **SG**

A.12-SG-20.01
Czas trwania egzaminu: **60 minut**

EGZAMIN POTWIERDZAJĄCY KWALIFIKACJE W ZAWODZIE
Rok 2020
CZĘŚĆ PISEMNA

PODSTAWA PROGRAMOWA 2012

Instrukcja dla zdającego

1. Sprawdź, czy arkusz egzaminacyjny zawiera 10 stron. Ewentualny brak stron lub inne usterki zgłoś przewodniczącemu zespołu nadzorującego.
2. Do arkusza dołączona jest KARTA ODPOWIEDZI, na której w oznaczonych miejscach:
   – wpisz oznaczenie kwalifikacji,
   – zamaluj kratkę z oznaczeniem wersji arkusza,
   – wpisz swój numer PESEL*,
   – wpisz swoją datę urodzenia,
   – przyklej naklejkę ze swoim numerem PESEL.
3. Arkusz egzaminacyjny zawiera test składający się z 40 zadań.
4. Za każde poprawnie rozwiązane zadanie możesz uzyskać 1 punkt.
5. Aby zdać część pisemną egzaminu musisz uzyskać co najmniej 20 punktów.
6. Czytaj uważnie wszystkie zadania.
7. Rozwiązania zaznaczaj na KARCIE ODPOWIEDZI długopisem lub piórem z czarnym tuszem/ atramentem.
8. Do każdego zadania podane są cztery możliwe odpowiedzi: A, B, C, D. Odpowiada im następujący układ kratek w KARCIE ODPOWIEDZI:

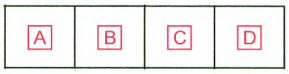

9. Tylko jedna odpowiedź jest poprawna.
10. Wybierz właściwą odpowiedź i zamaluj kratkę z odpowiadającą jej literą – np., gdy wybrałeś odpowiedź „A”:

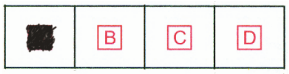

11. Staraj się wyraźnie zaznaczać odpowiedzi. Jeżeli się pomylisz i błędnie zaznaczysz odpowiedź, otocz ją kółkiem i zaznacz odpowiedź, którą uważasz za poprawną, np.

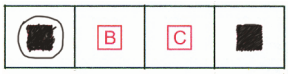

12. Po rozwiązaniu testu sprawdź, czy zaznaczyłeś wszystkie odpowiedzi na KARCIE ODPOWIEDZI i wprowadziłeś wszystkie dane, o których mowa w punkcie 2 tej instrukcji.

Pamiętaj, że oddajesz przewodniczącemu zespołu nadzorującego tylko KARTĘ ODPOWIEDZI.

Powodzenia!

** w przypadku braku numeru PESEL – seria i numer paszportu lub innego dokumentu potwierdzającego tożsamość*

Więcej arkuszy znajdziesz na stronie: arkusze.pl

Zadanie 1.

Które symbole oznaczają pomiary ciała wykonywane wzdłuż linii przylegających dookoła mierzonych jego części?

A. os, opx
B. PcPl, XcXc
C. XlXl, XcXl
D. SyTy, SySvXpTp

Zadanie 2.

Który symbol oznacza wymiar ciała mierzony w kierunku pionowym od punktu karkowego do punktu tylnego talii?

A. SyTy
B. SySvXp
C. SvXpTp
D. SySvXpTp

Zadanie 3.

Do wykończenia których elementów wyrobu odzieżowego należy zastosować podszewkę najczęściej z jedwabiu wiskozowego, tkaną w szerokie białe i wąskie czarne paski?

A. Kieszeni.
B. Rękawów.
C. Nogawek spodni.
D. Przodów żakietów.

Zadanie 4.

Którą tkaninę należy zastosować do uszycia całorocznej spódnicy damskiej podstawowej?

A. Tenis.
B. Loden.
C. Flausz.
D. Szyfon.

Zadanie 5.

Którą tkaninę należy zastosować do uszycia sukni wieczorowej przedstawionej na rysunku?

A. Taftę.
B. Batyst.
C. Teksas.
D. Etaminę.

Więcej arkuszy znajdziesz na stronie: arkusze.pl

Zadanie 6.

Które wymiary, poza wymiarami ciała klientki, należy wziąć pod uwagę do obliczenia zużycia materiału przeznaczonego na gładką bluzkę damską?

A. Długość bluzki, długość rękawa.
B. Długość bluzki, wzrost, długość rękawa.
C. Długość bluzki, obwód klatki piersiowej, wzrost.
D. Obwód klatki piersiowej, długość rękawa, obwód bioder.

Zadanie 7.

Określ zużycie gładkiej tkaniny o szerokości 90 cm, z której uszyto spodnie damskie podstawowe dla klientki o wymiarach przedstawionych w tabeli.

Nazwa wymiaru	Wymiar
Obwód talii	*74 cm*
Obwód bioder	*108 cm*
Długość spodni	*104 cm*

A. 104,00 cm
B. 114,40 cm
C. 208,00 cm
D. 228,80 cm

Zadanie 8.

Obliczając normę zużycia materiału o szerokości 140 cm przeznaczonego na płaszcz kąpielowy z kapturem należy uwzględnić następujące wymiary: długość płaszcza oraz

A. wzrost i obwód bioder.
B. wzrost i obwód klatki piersiowej.
C. długość rękawa i wysokość kaptura.
D. długość rękawa i obwód klatki piersiowej.

Zadanie 9.

W bluzce przedstawionej na rysunku konstrukcyjną zaszewkę piersiową przeniesiono na linię

A. boku.
B. podkroju szyi.
C. podkroju pachy.
D. środka przodu.

Zadanie 10.

Szablon odzieżowy to forma modelowa, w której uwzględniono

A. linie pomocnicze i konturowe.
B. dodatki na szwy i podwinięcia.
C. punkty konstrukcyjne i montażowe.
D. dodatki konstrukcyjne i technologiczne.

Więcej arkuszy znajdziesz na stronie: arkusze.pl

Zadanie 11.

Kołnierz leżący be-be modelowany jest na podstawie

A. formy tyłu.
B. formy przodu.
C. form przodu i tyłu.
D. wykreślnego kąta prostego.

Zadanie 12.

Przedstawioną na rysunku formę przodu sukienki otrzymano poprzez modelowanie

A. konfekcyjne.
B. przestrzenne.
C. za pomocą siatki konstrukcyjnej.
D. za pomocą formy konstrukcyjnej.

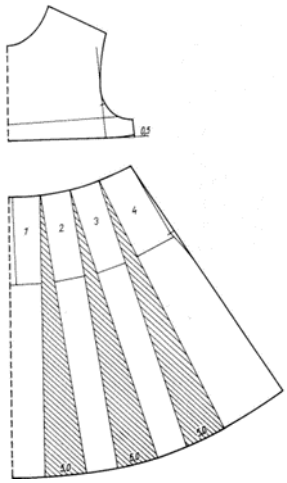

Zadanie 13.

Na rysunku przedstawiono modelowanie rękawa

A. poszerzonego dołem.
B. zwężonego dołem z bufką.
C. poszerzonego od linii łokcia do dołu.
D. zmarszczonego z wysokim mankietem.

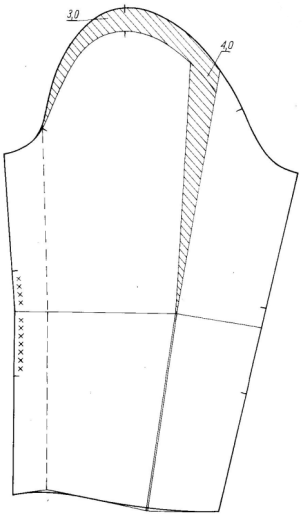

Zadanie 14.

Na której tkaninie można układać szablony wyrobów odzieżowych w dwóch kierunkach?

A. Na flauszu.
B. Na sztruksie.
C. Na popelinie.
D. Na aksamicie.

Więcej arkuszy znajdziesz na stronie: arkusze.pl

Zadanie 15.

Które maszyny należy zastosować do wykonania obrębu w spódnicy zgodnie z przedstawionym rysunkiem?

A. Pikówkę, overlock.
B. Ryglówkę, overlock.
C. Stębnówkę, overlock.
D. Łańcuszkową, overlock.

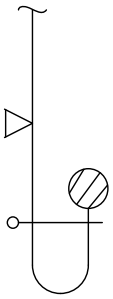

Zadanie 16.

Którą maszynę należy zastosować do wykonania dziurek w koszuli męskiej?

A. Guzikarkę.
B. Ryglówkę.
C. Dziurkarkę bieliźnianą.
D. Dziurkarkę odzieżową.

Zadanie 17.

Którą maszynę stosuje się do niewidocznego łączenia wkładów nośnych z przodami marynarek męskich?

A. Pikówkę.
B. Ryglówkę.
C. Fastrygówkę.
D. Zygzakówkę.

Zadanie 18.

Przyrząd pomocniczy przedstawiony na rysunku można zastosować do wykonania na stębnówce

A. podwinięcia dołu spódnicy.
B. naszycia sutaszu na przód kamizelki.
C. wszycia gumy w spodniach dresowych.
D. obszycia taśmą krawędzi dekoltu bluzki.

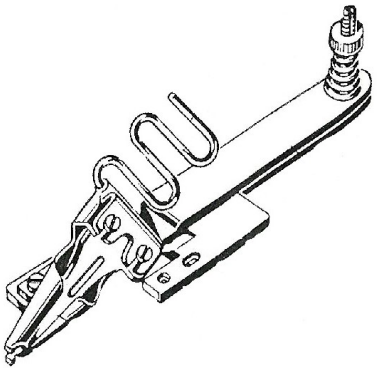

Zadanie 19.

Stopkę specjalną przedstawioną na rysunku można zastosować do wykonania na stębnówce

A. naszycia taśmy na szal.
B. wszycia zamka do spodni.
C. marszczenia karczka w sukience.
D. wykonania obrębu krawędzi apaszki.

Więcej arkuszy znajdziesz na stronie: arkusze.pl

Zadanie 20.

Który przyrząd należy zastosować do wykonania na stębnówce szwu przedstawionego na rysunku?

A. Linijkę.
B. Prasulec.
C. Zwijacz.
D. Lamownik.

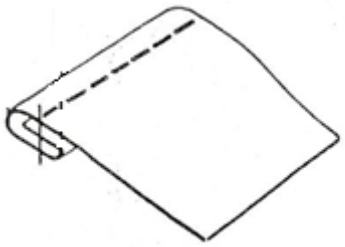

Zadanie 21.

Osłona igły zamontowana na maszynie stębnowej stanowi podczas szycia zabezpieczenie przed

A. przeszyciem palca.
B. przygnieceniem rąk.
C. odpryśnięciem złamanej igły.
D. wysuwaniem się igły z igielnicy.

Zadanie 22.

Aby zapobiec zrywaniu się nici górnej podczas szycia na stębnówce, należy między innymi

A. zwiększyć docisk sprężynki kompensacyjnej.
B. nie polerować elementów roboczych maszyny.
C. przewlekać nić przez prowadniki w sposób dowolny.
D. stosować nić o odpowiedniej wytrzymałości i grubości.

Zadanie 23.

Przyczyną łamania się igły w czasie szycia może być

A. zużycie ząbków transportera.
B. zastosowanie nici złej jakości.
C. niewłaściwy docisk materiału.
D. niewłaściwe założenie bębenka.

Zadanie 24.

Na którym rysunku przedstawiono technikę wszycia kryto zamka błyskawicznego?

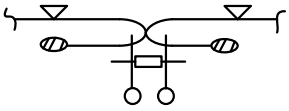

A.

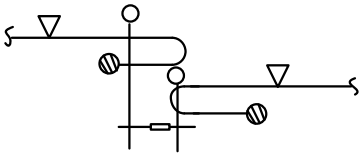

B.

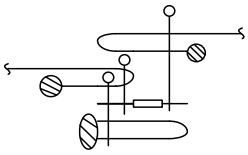

C.

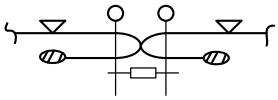

D.

Więcej arkuszy znajdziesz na stronie: arkusze.pl

Zadanie 25.

Dół spódnicy przedstawionej na rysunku jest wykończony obrębem z obrzuconym brzegiem podszytym ściegiem

A. krytym.
B. stębnowym.
C. zygzakowym.
D. łańcuszkowym.

Zadanie 26.

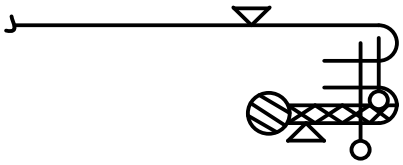

Wykończenie plisą pokroju pachy w bluzce zgodnie z przedstawionym rysunkiem instruktażowym, obejmuje wykonanie w kolejności technologicznej następujących czynności:

A. obrzucenie krawędzi plisy, podklejenie plisy, wykonanie stębnowania, doszycie plisy do podkroju.
B. podklejenie plisy, obrzucenie krawędzi plisy, doszycie plisy do podkroju, przewinięcie plisy, wykonanie stębnowania.
C. podklejenie plisy, wykonanie stębnowania, doszycie plisy do podkroju, obrzucenie krawędzi plisy.
D. doszycie plisy do podkroju, obrzucenie krawędzi plisy, podklejenie plisy, wykonanie stębnowania.

Zadanie 27.

Który z przedstawionych znaków informacyjnych powinien zamieścić producent na wszywce wyrobu odzieżowego wykonanego z materiału o zalecanej maksymalnej temperaturze prasowania 150ºC?

A. B. C. D.

Zadanie 28.

W warunkach domowych spodnie wełniane, w których wszywka jest nieczytelna, należy prasować żelazkiem nagrzanym do maksymalnej temperatury

A. 180°C
B. 150°C
C. 120°C
D. 110°C

Więcej arkuszy znajdziesz na stronie: arkusze.pl

Zadanie 29.

Przyczyną błędu występującego w bluzce przedstawionej na rysunku jest niewłaściwe zestawienie przodów na linii ramion i przody

A. za długie.
B. za wąskie.
C. za krótkie.
D. za szerokie.

Zadanie 30.

W spódnicy, która ma za mały podkrój na linii talii w przodzie lub jest za wąska w biodrach powstają fałdy

A. poziome w tyle.
B. poziome w przodzie.
C. ukośne zwrócone w kierunku linii środka tyłu.
D. ukośne zwrócone w kierunku linii środka przodu.

Zadanie 31.

W spodniach przedstawionych na rysunku

A. przody są za długie w stosunku do tyłu.
B. tyły są za długie w stosunku do przodów.
C. przody są za szerokie w stosunku do tyłu.
D. tyły są za wąskie w stosunku do przodów.

Zadanie 32.

Kołnierz leżący, gładko układający się na ramionach, okrągły i odsłaniający szyję, stosowany najczęściej w odzieży dziecięcej, to kołnierz

A. be-be.
B. koszulowy.
C. napoleoński.
D. marynarkowy.

Więcej arkuszy znajdziesz na stronie: arkusze.pl

Zadanie 33.

Wykonując przeróbkę polegającą na poszerzeniu dołu sukni princeski, należy rozpruć szwy na linii cięć pionowych w dolnej części przodu i tyłu i wszyć

A. kryzę.
B. wolant.
C. godety.
D. baskinkę.

Zadanie 34.

Który wymiar kontrolny należy zdjąć z figury z wadami postawy ciała w celu dopasowania formy przodu bluzki damskiej do sylwetki?

A. PcPl
B. XlXl
C. SyTy
D. SvXpTp

Zadanie 35.

Jednym ze sposobów usunięcia fałd występujących w tyle bluzki przedstawionej na rysunku jest

A. skrócenie tyłu górą.
B. wydłużenie tyłu górą.
C. zwężenie tyłu na linii talii.
D. poszerzenie tyłu na linii talii.

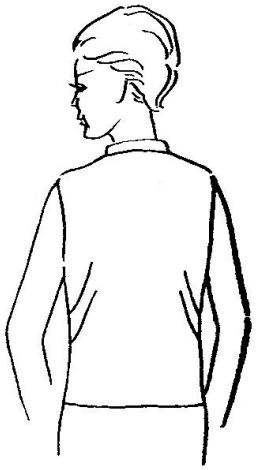

Zadanie 36.

Za głęboki podkrój spodni można poprawić między innymi poprzez

A. pogłębienie podkroju w tyle.
B. ścięcie przodu i tyłu w górze.
C. pogłębienie podkroju w przodzie.
D. doszycie karczka w przodzie i tyle.

Więcej arkuszy znajdziesz na stronie: arkusze.pl

Zadanie 37.

W jaki sposób można usunąć błąd występujący w spódnicy przedstawionej na rysunku?



A. Poszerzyć przód na linii talii.
B. Poszerzyć przód na linii bioder.
C. Pogłębić podkrój na linii talii w przodzie.
D. Podwyższyć podkrój na linii talii z przodu.

Zadanie 38.

Ile zapłaci klientka za uszycie spódnicy przedstawionej na rysunku, jeżeli w zakładzie obowiązuje cennik usług przedstawiony w tabeli?

A. 70,00 zł
B. 90,00 zł
C. 100,00 zł
D. 110,00 zł

Cennik usług

Rodzaj usługi	Cena
Uszycie spódnicy podstawowej	70,00 zł
Uszycie spódnicy fantazyjnej: z karczkiem, asymetrycznej	90,00 zł
Uszycie spódnicy fantazyjnej: kloszowej, poszerzanej	100,00 zł
Uszycie spódnicy fantazyjnej: solejka, plisowana, z zakładkami	110,00 zł

Zadanie 39.

Przeróbka spodni polega na ich skróceniu i doszyciu mankietów wykonanych z odciętych kawałków nogawek zapinanych na 1 guzik. Cena 1 guzika wynosi 1,50 zł, a koszt robocizny oszacowano na 47,00 zł. Jaka będzie cena wykonania przeróbki?

A. 47,00 zł
B. 48,50 zł
C. 50,00 zł
D. 53,50 zł

Zadanie 40.

Klientka o wymiarach 164/72/96 zleciła uszycie spódnicy podstawowej o długości 50 cm. Jaki będzie koszt uszycia spódnicy z tkaniny o szerokości 150 cm, wełnianej gładkiej pobranej z magazynu, jeśli cena 1 metra tkaniny wynosi 40,00 zł i koszt robocizny 70,00 zł (koszt robocizny uwzględnia również koszty zużytych do uszycia wyrobu dodatków krawieckich).

A. 92,00 zł
B. 110,00 zł
C. 114,00 zł
D. 121,00 zł

Więcej arkuszy znajdziesz na stronie: arkusze.pl