Arkusz zawiera informacje prawnie chronione do momentu rozpoczęcia egzaminu

Układ graficzny © CKE 2020

CENTRALNA KOMISJA EGZAMINACYJNA

Nazwa kwalifikacji: **Asystowanie lekarzowi dentyście i utrzymanie gabinetu w gotowości do pracy**
Oznaczenie kwalifikacji: **Z.15**
Wersja arkusza: **SG**

Z.15-SG-21.01
Czas trwania egzaminu: **60 minut**

EGZAMIN POTWIERDZAJĄCY KWALIFIKACJE W ZAWODZIE
Rok 2021
CZĘŚĆ PISEMNA

PODSTAWA PROGRAMOWA 2012

Instrukcja dla zdającego

1. Sprawdź, czy arkusz egzaminacyjny zawiera 8 stron. Ewentualny brak stron lub inne usterki zgłoś przewodniczącemu zespołu nadzorującego.
2. Do arkusza dołączona jest KARTA ODPOWIEDZI, na której w oznaczonych miejscach:
   – wpisz oznaczenie kwalifikacji,
   – zamaluj kratkę z oznaczeniem wersji arkusza,
   – wpisz swój numer PESEL*,
   – wpisz swoją datę urodzenia,
   – przyklej naklejkę ze swoim numerem PESEL.
3. Arkusz egzaminacyjny zawiera test składający się z 40 zadań.
4. Za każde poprawnie rozwiązane zadanie możesz uzyskać 1 punkt.
5. Aby zdać część pisemną egzaminu musisz uzyskać co najmniej 20 punktów.
6. Czytaj uważnie wszystkie zadania.
7. Rozwiązania zaznaczaj na KARCIE ODPOWIEDZI długopisem lub piórem z czarnym tuszem/ atramentem.
8. Do każdego zadania podane są cztery możliwe odpowiedzi: A, B, C, D. Odpowiada im następujący układ kratek w KARCIE ODPOWIEDZI:

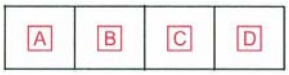

9. Tylko jedna odpowiedź jest poprawna.
10. Wybierz właściwą odpowiedź i zamaluj kratkę z odpowiadającą jej literą – np., gdy wybrałeś odpowiedź „A”:

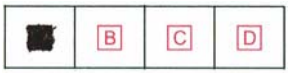

11. Staraj się wyraźnie zaznaczać odpowiedzi. Jeżeli się pomylisz i błędnie zaznaczysz odpowiedź, otocz ją kółkiem i zaznacz odpowiedź, którą uważasz za poprawną, np.

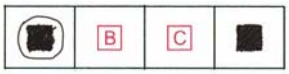

12. Po rozwiązaniu testu sprawdź, czy zaznaczyłeś wszystkie odpowiedzi na KARCIE ODPOWIEDZI i wprowadziłeś wszystkie dane, o których mowa w punkcie 2 tej instrukcji.

Pamiętaj, że oddajesz przewodniczącemu zespołu nadzorującego tylko KARTĘ ODPOWIEDZI.

Powodzenia!

** w przypadku braku numeru PESEL – seria i numer paszportu lub innego dokumentu potwierdzającego tożsamość*

Więcej arkuszy znajdziesz na stronie: arkusze.pl

Zadanie 1.

Asystentka stomatologiczna przekazując raspator lekarzowi podczas zabiegu przeprowadzanego w znieczuleniu ogólnym, powinna zastosować chwyt

A. piórowy.
B. trójpalcowy.
C. dwupalcowy podparty.
D. dłoniowo-kciukowy odwrócony.

Zadanie 2.

Kleszcze Meissnera wykorzystywane są w procedurach

A. protetycznych.
B. chirurgicznych.
C. ortodontycznych.
D. periodontologicznych.

Zadanie 3.

Podczas kontroli wsadu w procesie sterylizacji przy użyciu wskaźników biologicznych **nie należy**

A. używać wskaźników w pustej komorze sterylizatora.
B. umieszczać wskaźników w różnych miejscach komory sterylizatora.
C. określać najtrudniej dostępnego miejsca załadunku dla czynnika sterylizującego.
D. stosować wskaźników opakowanych w załadunku składającym się z materiałów opakowanych.

Zadanie 4.

Wykazanie skuteczności penetracji pary wodnej we wnętrzu wgłębionych wsadów przeprowadzane jest przy użyciu testu

A. TAS.
B. Helix.
C. Browne TST.
D. Bowie&Dick'a.

Zadanie 5.

Lekarz dentysta poprosił o podanie narzędzi do lokalizacji ujścia kanału, ekstyrpacji miazgi i opracowania mechanicznego kanału. Asystentka stomatologiczna powinna podać kolejno

A. poszerzacz, pilnik, upychadło.
B. pilnik, poszerzcz, miazgociąg.
C. rozpychacz, upychadło, igłę Druxa.
D. poszukiwacz, miazgociąg, poszerzacz.

Zadanie 6.

Podczas leczenia endodontycznego lekarz prosi o podanie narzędzi kolejno w rozmiarze: 25, 30, 35. Zgodnie ze standaryzacją ISO asystentka stomatologiczna powinna przygotować narzędzia oznaczone kolorem:

A. białym, żółtym, niebieskim.
B. czerwonym, żółtym, zielonym.
C. żółtym, czerwonym, niebieskim.
D. czerwonym, niebieskim, zielonym.

Więcej arkuszy znajdziesz na stronie: arkusze.pl

Zadanie 7.

Które narzędzie kanałowe przedstawiono na ilustracji?

A. Pilnik H.
B. Pilnik K.
C. Poszerzacz.
D. Miazgociąg.

Zadanie 8.

Do pobrania wycisku indywidualnego mają zastosowanie masy wyciskowe

A. agarowe.
B. alginatowe.
C. silikonowe.
D. hydrokoloidalne.

Zadanie 9.

Określenie Haevy Body oznacza masę wyciskową do wycisków dwuwarstwowych o konsystencji

A. żelu.
B. maści.
C. mleczka.
D. plasteliny.

Zadanie 10.

Który materiał stosuje się do niechirurgicznego leczenia zmian okołowierzchołkowych?

A. Cement fosforanowy.
B. Wodorotlenek wapnia.
C. Wodorotlenek magnezu.
D. Cement glassjonomerowy.

Zadanie 11.

Artykaina i mepiwakaina są składnikami środków

A. odkażających.
B. znieczulających.
C. impregnujących.
D. hemostatycznych.

Więcej arkuszy znajdziesz na stronie: arkusze.pl

Zadanie 12.

Na ilustracji przedstawiono narzędzia

A. protetyczne.
B. ortodontyczne.
C. endodontyczne.
D. periodontologiczne.

Zadanie 13.

Na ilustracji przedstawiono kleszcze Bertena służące do ekstrakcji

A. korzeni w szczęce.
B. siekaczy w żuchwie.
C. drugich trzonowców w szczęce.
D. trzecich trzonowców w żuchwie.

Zadanie 14.

Który rodzaj masy wyciskowej można przygotować w mieszalniku przedstawionym na ilustracji?

A. Stentsową.
B. Alginatową.
C. Polieterową.
D. Polisufidową.

Zadanie 15.

Zgłębnik periodontologiczny służy do

A. wykrywania ubytków próchnicowych.
B. badania spoistości twardych tkanek zęba.
C. pomiaru głębokości kieszonek dziąsłowych.
D. sprawdzania szczelności wypełnień stałych.

Zadanie 16.

Do ekstrakcji górnego prawego kła z zachowaną koroną zębową należy przygotować kleszcze Tomesa-Bertena

A. proste.
B. esowate.
C. bagnetowe.
D. esowate z trzpieniem.

Więcej arkuszy znajdziesz na stronie: arkusze.pl

Zadanie 17.

Wstępne magazynowanie odpadów medycznych o kodzie 18 01 03 w temperaturze od 10°C do 18°C może odbywać się tak długo, jak pozwalają na to ich właściwości, jednak nie dłużej niż

A. 12 godzin.
B. 24 godziny.
C. 36 godzin.
D. 72 godziny.

Zadanie 18.

Odpady amalgamatu stomatologicznego należy przechowywać w pojemniku

A. żółtym.
B. czarnym.
C. niebieskim.
D. czerwonym.

Zadanie 19.

Chusteczkę dezynfekcyjną użytą do dezynfekcji blatu asystora po zabiegu, należy umieścić w pojemniku z odpadami medycznymi oznaczonym kodem

A. 18 01 01
B. 18 01 02
C. 18 01 03
D. 18 01 04

Zadanie 20.

Igłę po wykonanym znieczuleniu przewodowym należy umieścić w twardościennym pojemniku oznaczonym kodem

A. 18 01 01
B. 18 01 02
C. 18 01 03
D. 18 01 10

Zadanie 21.

Worek na odpady zakaźne należy zapełniać co najwyżej do jego objętości wynoszącej

A. 1/3
B. 2/3
C. 1/2
D. 3/4

Zadanie 22.

Ile biologicznych wskaźników należy umieścić w komorze 15-litrowego autoklawu, przeprowadzając jego okresową kontrolę skuteczności sterylizacji parą wodną?

A. 1
B. 2
C. 3
D. 4

Więcej arkuszy znajdziesz na stronie: arkusze.pl

Zadanie 23.

Przyczyną powstawania ubytków abrazyjnych może być

A. nadmierne stosowanie płukanek do zębów.
B. spożywanie dużej ilości soków owocowych.
C. używanie pasty do zębów o niskim współczynniku RDA.
D. stosowanie nieprawidłowej techniki szczotkowania zębów.

Zadanie 24.

Ubytek próchnicowy w zębie pozbawionym żywej miazgi to próchnica

A. wtórna.
B. okrężna.
C. kwitnąca.
D. nietypowa.

Zadanie 25.

Do parafunkcji narządu żucia zalicza się

A. ssanie wargi górnej.
B. zaburzenia połykania.
C. oddychanie przez usta.
D. nieprawidłową wymowę.

Zadanie 26.

Do której klasy Blacka zaliczane są ubytki próchnicowe na powierzchniach stycznych zębów przednich z zachowanym kątem siecznym?

A. I
B. II
C. III
D. IV

Zadanie 27.

Następstwem nieleczonej próchnicy głębokiej jest

A. dysplazja zębiny.
B. zapalenie miazgi.
C. hipoplazja szkliwa.
D. ubytek abfrakcyjny.

Zadanie 28.

Proces polegający na utracie twardych tkanek zęba podczas rozcierania pokarmu między przeciwstawnymi zębami i tworzenia kęsa pokarmowego nosi nazwę

A. erozji.
B. atrycji.
C. abfrakcji.
D. demastykacji.

Więcej arkuszy znajdziesz na stronie: arkusze.pl

Zadanie 29.

Całkowite usunięcia miazgi z komory zęba określa się jako

A. amputację.
B. mumifikację.
C. dewitalizację.
D. apeksyfikację.

Zadanie 30.

Nieprawidłowe szczotkowanie zębów może doprowadzić do

A. erozji szkliwa.
B. recesji dziąseł.
C. abfrakcji zęba.
D. resorpcji korzenia.

Zadanie 31.

Metoda fluoryzacji według Torella polega na

A. stosowaniu okładów z pianki fluorowej.
B. szczotkowaniu zębów żelem fluorkowym.
C. płukaniu jamy ustnej 0,2% roztworem fluorku sodu.
D. wcieraniu 2% fluorku sodu w powierzchnię szkliwa.

Zadanie 32.

Według stanowiska polskich ekspertów dotyczącego indywidualnej profilaktyki fluorkowej u dzieci i młodzieży przy umiarkowanym ryzyku próchnicy lakiery fluorkowe powinny być aplikowane

A. raz w roku.
B. dwa razy w roku.
C. trzy razy w roku.
D. sześć razy w roku.

Zadanie 33.

Asystując praworęcznemu operatorowi, druga asysta układa narzędzia do planowanego zabiegu od strony

A. lewej do prawej, według kolejności używania przez operatora.
B. prawej do lewej, według kolejności używania przez operatora.
C. lewej do prawej, według częstotliwości używania przez operatora.
D. prawej do lewej, według częstotliwości używania przez operatora.

Zadanie 34.

Do przygotowania wyciskowej masy silikonowej w celu pobrania wycisku przed podścieleniem protezy akrylowej należy użyć

A. miski gumowej i łopatki plastikowej.
B. płytki szklanej i szpatułki drewnianej.
C. wstrząsarki stomatologicznej i kapsułki.
D. bloczka papierowego i szpatułki metalowej.

Więcej arkuszy znajdziesz na stronie: arkusze.pl

Zadanie 35.

Preparaty wodorotlenkowo-wapniowe do bezpośredniego pokrycia miazgi wymagające ręcznego mieszania przygotowuje się przy użyciu

A. szpatułki metalowej na bloczku papierowym.
B. jałowej szpatułki plastikowej na płytce szklanej.
C. jałowej szpatułki metalowej na jałowej płytce szklanej.
D. szpatułki plastikowej na płytkach z papieru woskowanego.

Zadanie 36.

Do osadzania koron metalowych na stałe należy przygotować cement o konsystencji

A. kitu.
B. plasteliny.
C. twardej pasty.
D. gęstej śmietany.

Zadanie 37.

Kauter należy przygotować do zabiegu

A. ekstrakcji zęba.
B. plastyki dziąsła.
C. wybielania zębów.
D. ekstyrpacji miazgi.

Zadanie. 38.

Wybierz zalecenie pozabiegowe przekazywane pacjentowi po zabiegu lakowania zębów.

A. Proszę w dniu zabiegu stosować białą dietę.
B. Proszę zgłosić się na wizytę kontrolną za sześć miesięcy.
C. Proszę nie płukać, nie jeść i nie pić przez dwie godziny po zabiegu.
D. Proszę nie szczotkować zębów w dniu zabiegu i nie gryźć twardych pokarmów.

Zadanie 39.

Który zakres zębów stałych oznaczonych w systemie FDI obejmuje sekstant drugi?

A. 18÷14
B. 13÷23
C. 48÷44
D. 43÷33

Zadanie 40.

Dokumentację medyczną gabinetu stomatologicznego w postaci zdjęć rentgenowskich, zgodnie z przepisami prawa, należy przechowywać przez okres co najmniej

A. 5 lat.
B. 10 lat.
C. 15 lat.
D. 20 lat.

Więcej arkuszy znajdziesz na stronie: arkusze.pl

Więcej arkuszy znajdziesz na stronie: arkusze.pl